TEMA 14: LA PREHISTORIA CONOCIMIENTO DEL MEDIO (6º) FICHA Nº **4** Nombre: _____

1. Lee con atención el documento titulado «Edades de la historia de la humanidad».
2. Debajo de cada cuadro coloca una de estas palabras: **Paleolítico, Neolítico**, **Edad Antigua**, **Edad Media**, **Edad Moderna** y **Edad Contemporánea**. Rodea con color rojo los cuadros de la Prehistoria y con color verde los cuadros de la Historia.
3. Ordena estos cuadros de mayor a menor antiguedad. Coloca los números ordinales correspondientes en los cuadros pequeños.

4º	1º	3º	6º	2º	5º
					
Edad Media	Paleolítico	Edad Antigua	Edad Contemporánea	Neolítico	Edad Moderna

4. Completa: Yo vivo en la Edad Contemporánea

5. Ordenas estas etapas de la Prehistoria e Historia en función del criterio: de mayor a menor duración en la historia de la humanidad: **Edad Media, Edad Contemporánea, Edad Antigua, Paleolítico, Edad Moderna, Neolítico**.

Paleolítico, Neolítico, Edad Antigua, Edad Media, Edad Moderna, Edad Contemporánea

6. ¿Hoy, en el año 2007, puede existir en el mundo algún pueblo que viva en el Neolítico o en el Paleolítico?. Argumenta tu respuesta.

Sí. El paso de una edad a otra no se da a la misma vez ni en el mismo tiempo en todos los lugares.

7. En el eje siguiente colorea muy suavemente, sin ocultar nada de lo escrito en el mismo: Paleolítico (verde claro), Neolítico (rosa), Edad Antigua (amarillo), Edad Media (celeste), Edad Moderna (morado) y Edad Contemporánea (rojo). También escribe el nombre de estas edades de la Historia en la parte superior del eje.

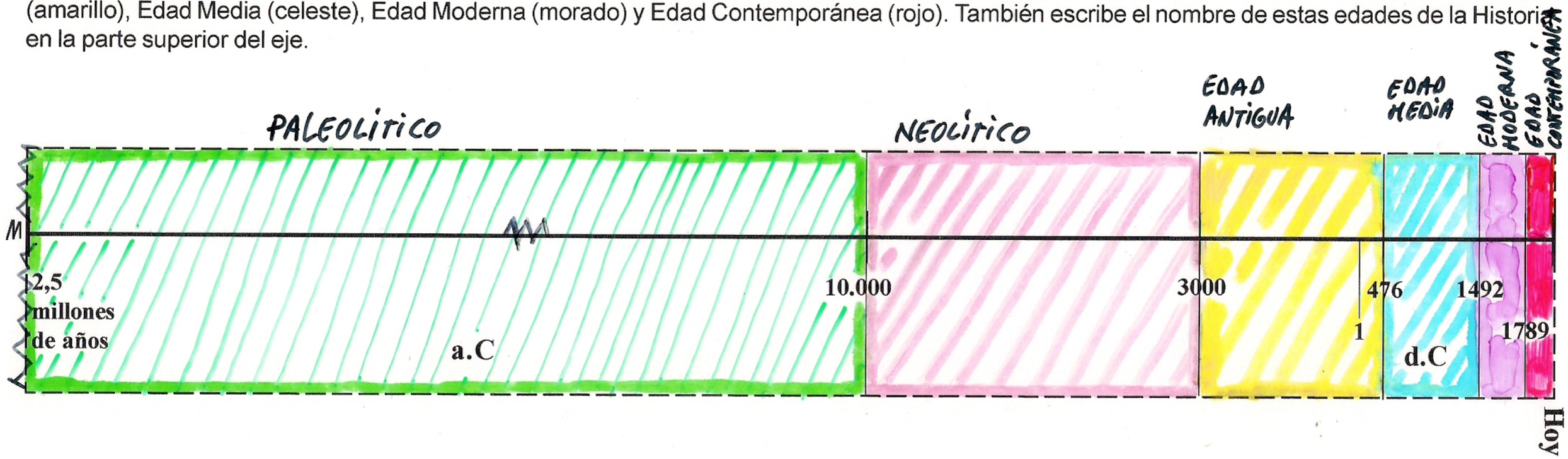

8. Debajo del anterior eje, dibuja o pega una imagen (objeto, invento, figura, herramienta...) para cada una de las seis edades de la Prehistoria e Historia. Une, con flechas, dichas imágenes con la edad correspondiente del eje.
9. Estudia el documento titulado «Edades de la historia de la humanidad».