Ángulos consecutivos y adyacentes

Nombre _____ Fecha _____

Recuerda

- Los **ángulos consecutivos** son los que tienen en común el vértice y un lado.
- Los **ángulos adyacentes** son los ángulos consecutivos que tienen los lados no comunes en la misma recta.

1. Completa.

- Los ángulos consecutivos que tienen los lados no comunes en la misma recta se llaman ▶ _____
- Los ángulos que tienen en común el vértice y un lado se llaman ▶ _____

2. Escribe *ángulo consecutivo* o *ángulo adyacente* según corresponda.

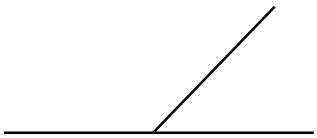

_____

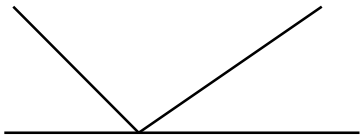

_____

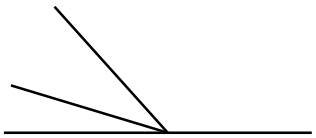

_____

3. Repasa según la clave.

rojo — Dos ángulos consecutivos

azul — Dos ángulos adyacentes

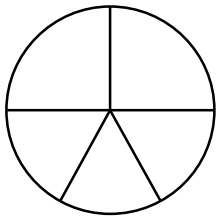

4. Traza dos ángulos adyacentes y dos ángulos consecutivos.

© 2009 Santillana Educación, S. L.