Refuerzo

37

# Bisectriz de un ángulo

Nombre _____ Fecha _____

**Recuerda**

La **bisectriz** de un ángulo es la semirecta que pasa por su vértice y divide el ángulo en dos ángulos iguales.

**1. Escribe *mediatriz* o *bisectriz* según corresponda.**

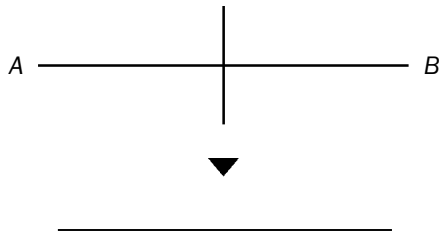


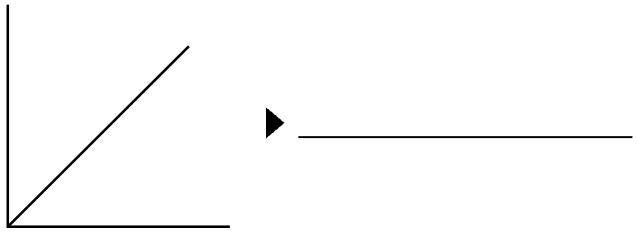

**2. Mide con un transportador cada ángulo, marca la mitad de dicha medida y traza su bisectriz.**

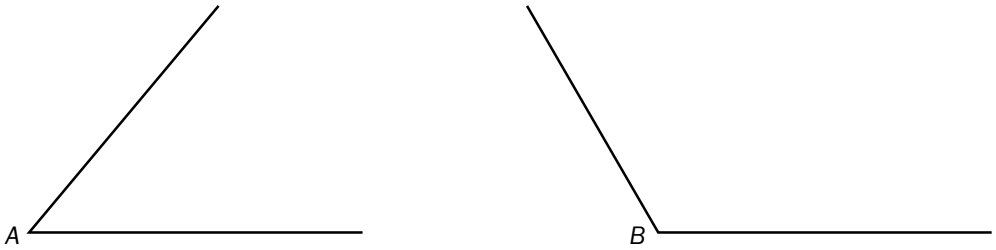


**3. Dibuja cada ángulo y traza su bisectriz utilizando una regla y un compás.**

- $\hat{A} = 70°$
- $\hat{B} = 140°$
- $\hat{C} = 190°$

© 2009 Santillana Educación, S. L.