Simetría y traslación

Nombre _____ Fecha _____

Recuerda

Dos figuras son **simétricas** respecto a un eje si al doblar por ese eje las dos figuras coinciden.

- Al mover una figura en la cuadrícula, hacemos una traslación.

1. Traza la figura simétrica respecto al eje de simetría.

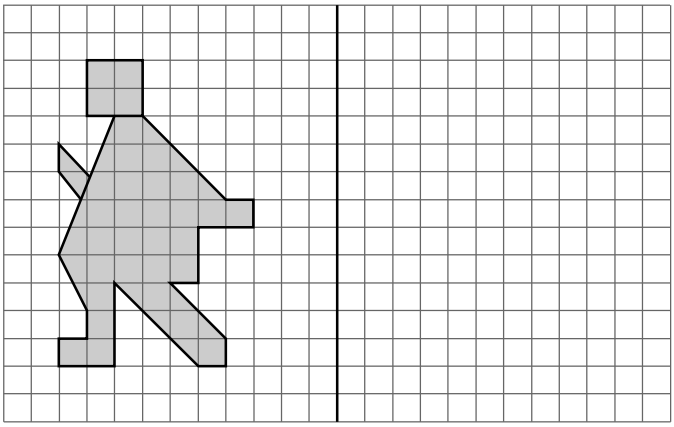

2. Traza la figura que se obtiene al trasladar esta figura 9 cuadraditos a la derecha.

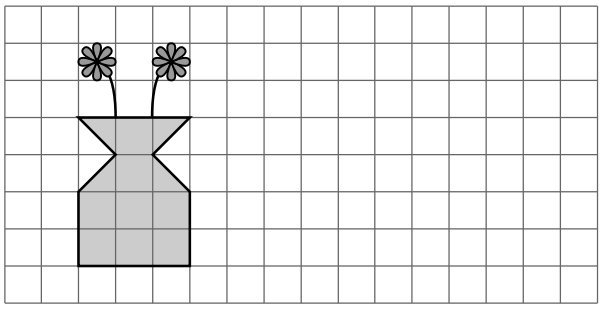

3. Rodea los tres errores que se han producido al trazar las figuras simétricas.

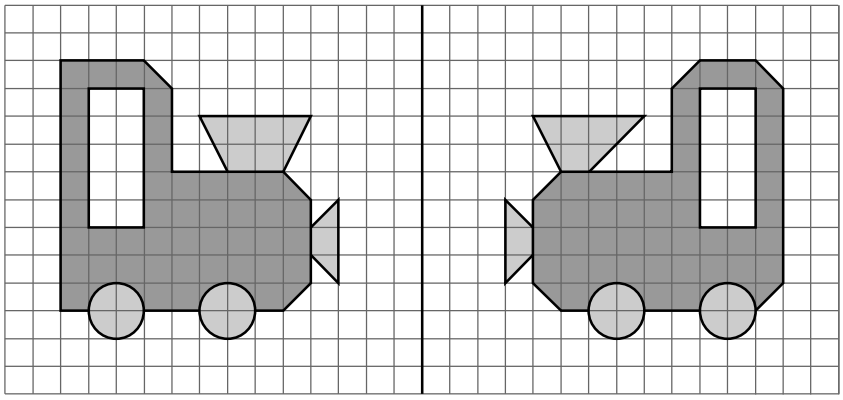

© 2009 Santillana Educación, S. L.