Refuerzo

55 Área de una figura con un cuadrado unidad

Nombre _____ Fecha _____

Recuerda

Para medir el área de una figura, se elige un cuadrado como unidad y se cuenta cuántos cuadrados unidad ocupa la figura.

Esta medida es el área de la figura.

1. Cuenta los cuadrados unidad y completa el área de cada figura.

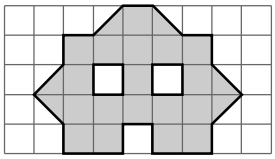

Área = _____

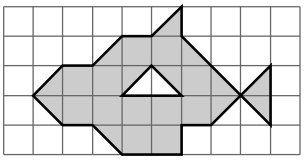

Área = _____

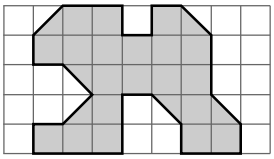

Área = _____

2. Halla el área de las siguientes figuras.

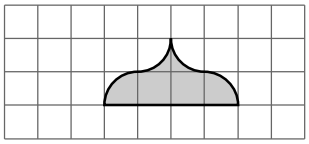

Área = _____

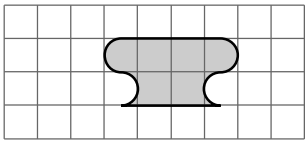

Área = _____

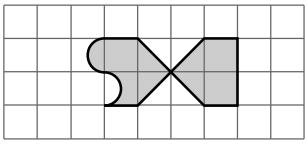

Área = _____

3. Dibuja las siguientes figuras.

- Una figura que tenga medios cuadraditos y su área sea de 16 cuadraditos.
- Una figura que tenga bordes curvos y su área sea de 12 cuadraditos.
- Una figura que tenga medios círculos y su área sea de 18 cuadraditos.

© 2009 Santillana Educación, S. L.