El área de figuras compuestas

Nombre _____ Fecha _____

Recuerda

Para calcular el área de una figura compuesta se debe calcular el área de cada una de las figuras que la componen. Por ejemplo:

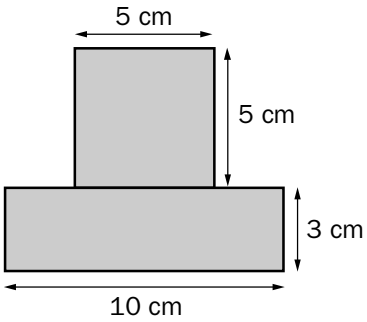

Área del rectángulo: 10 cm × 3 cm = 30 cm^2.

○ Área del cuadrado: 5 cm × 5 cm = 25 cm^2.

● Área de la figura: 30 cm^2 + 25 cm^2 = 55 cm^2.

1. Calcula el área de las siguientes figuras.

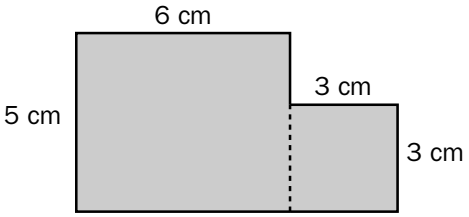

Área del rectángulo: 6 cm × _____ cm = _____ cm^2.

○ Área del cuadrado: _____ cm × 3 cm = _____ cm^2.

Área de la figura: _____ cm + _____ cm^2 = _____ cm^2.

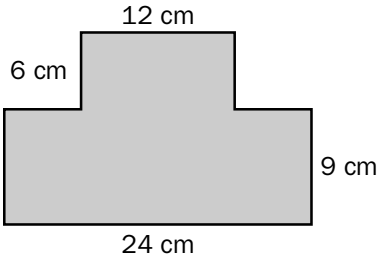

○ Área del _____: _____

Área del _____: _____

○ Área de la figura: _____

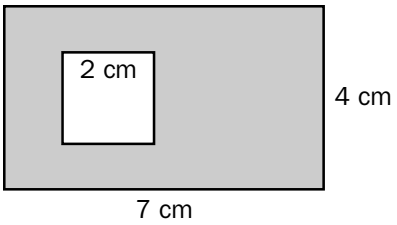

Área del _____: _____

○ Área del _____: _____

Área de la figura: _____ cm^2 − _____ cm^2 = _____ cm^2.

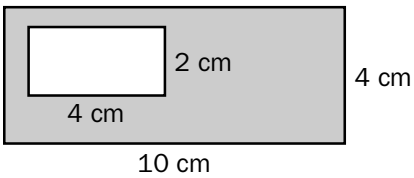

○ Área del _____: _____

Área del _____: _____

○ Área de la figura: _____

© 2009 Santillana Educación, S. L.