Probabilidad

Nombre _____ Fecha _____

Recuerda

Esta ruleta está dividida en 6 partes iguales:

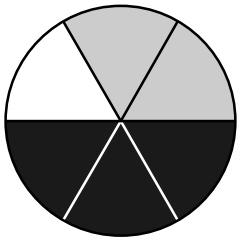

- Una de las seis partes es blanca.
  Por tanto, $\frac{1}{6}$ de la ruleta es blanco.
  La probabilidad de que salga blanco es $\frac{1}{6}$.
  Dos de las seis partes son grises.
  Por tanto, $\frac{2}{6}$ de la ruleta son gris. La probabilidad de que salga gris es $\frac{2}{6}$.
- Tres de las seis partes son negras. Por tanto, $\frac{3}{6}$ de la ruleta son negro.
  La probabilidad de que salga negro es $\frac{3}{6}$.

1. Completa y relaciona.

	Número de partes iguales en que está dividida la ruleta	Partes coloreadas de gris	Probabilidad de que salga gris
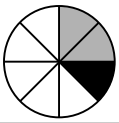	8	2	$\frac{2}{8}$
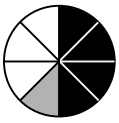			
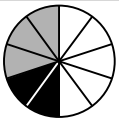			
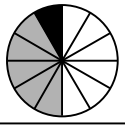			

2. Observa y contesta.

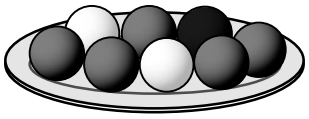

¿Cuál es la probabilidad de sacar una bola blanca? _____

- ¿Cuál es la probabilidad de sacar una bola negra? _____
- ¿Cuál es la probabilidad de sacar una bola gris? _____

© 2009 Santillana Educación, S. L.